Los poliedros

Identificamos los poliedros y sus elementos

Los **poliedros** son los cuerpos geométricos que tienen todas sus caras planas.

POLIEDROS

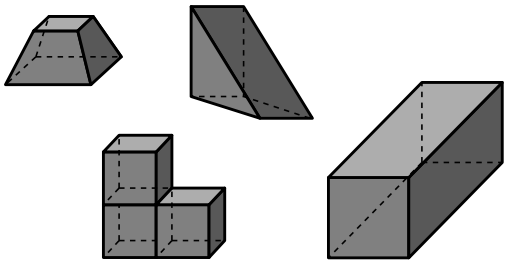

NO POLIEDROS

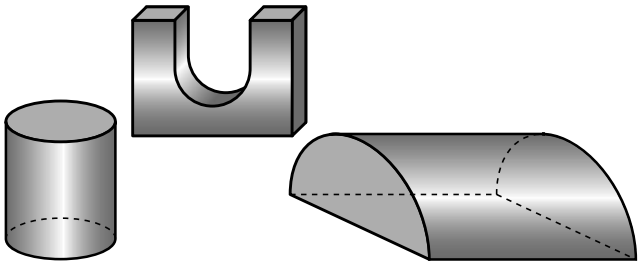

ELEMENTOS DE LOS POLIEDROS

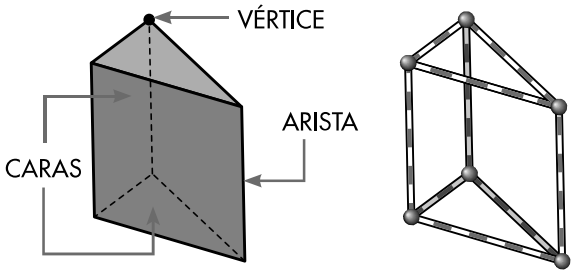

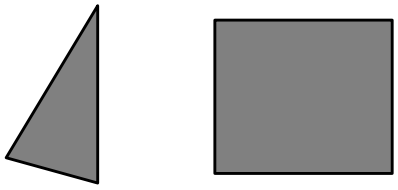

Las caras de los poliedros son polígonos.

Actividades

Aplico lo aprendido

1 Escribe los nombres de los objetos que tienen forma de poliedro.

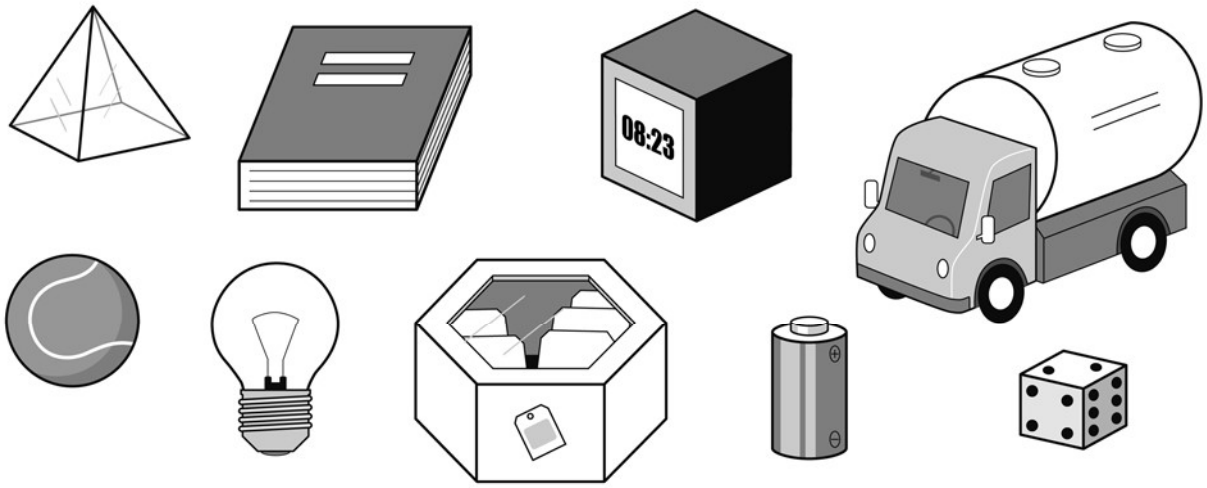

© GRUPO ANAYA, S.A., Matemáticas 3.º Educación Primaria. Material fotocopiable autorizado.

2 Observa los poliedros y completa la tabla.

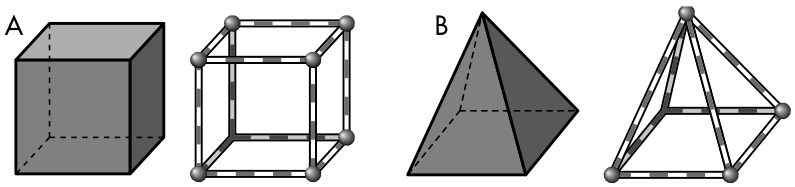

	A	B
N.º DE CARAS		
N.º DE ARISTAS		
N.º DE VÉRTICES		

3 Colorea las caras que le corresponden a este cuerpo:

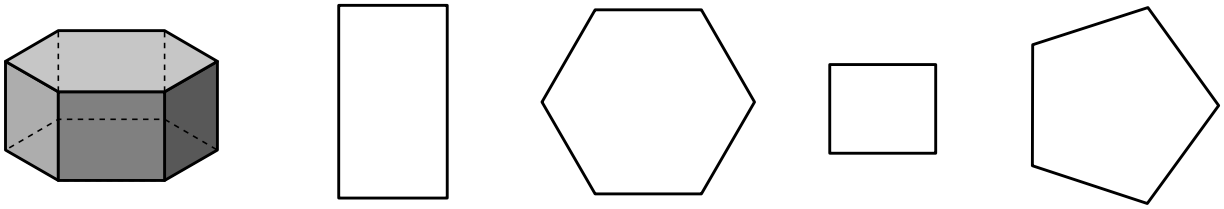

Aprendo y practico

Describimos esta figura:

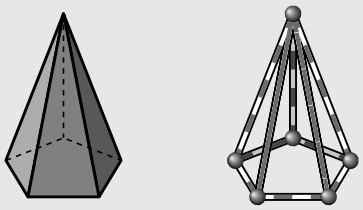

Es un poliedro con seis vértices, diez aristas, una base y cinco caras laterales.

La base es un pentágono, y las caras laterales, triángulos.

4 Completa la descripción de estos poliedros:

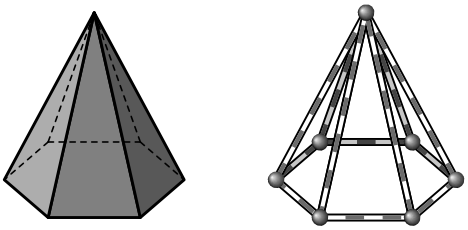

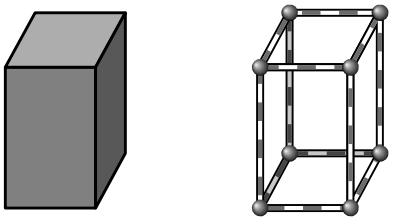

© GRUPO ANAYA, S.A., Matemáticas 3.º Educación Primaria. Material fotocopiable autorizado.