FICHA 1

GDS: 3

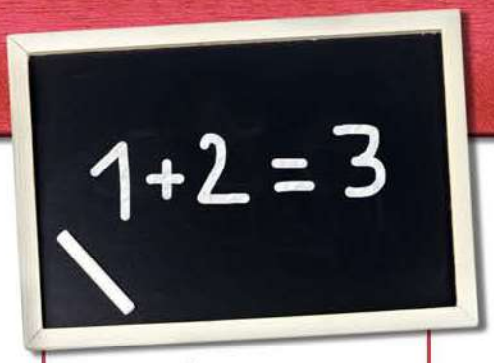

NIVEL DE ESCOLARIZACIÓN: ALTO

INSTRUCCIONES: EFECTÚE LOS SIGUIENTES CÁLCULOS SIGUIENDO LAS FLECHAS:

FUNCIÓN COGNITIVA

CÁLCULO

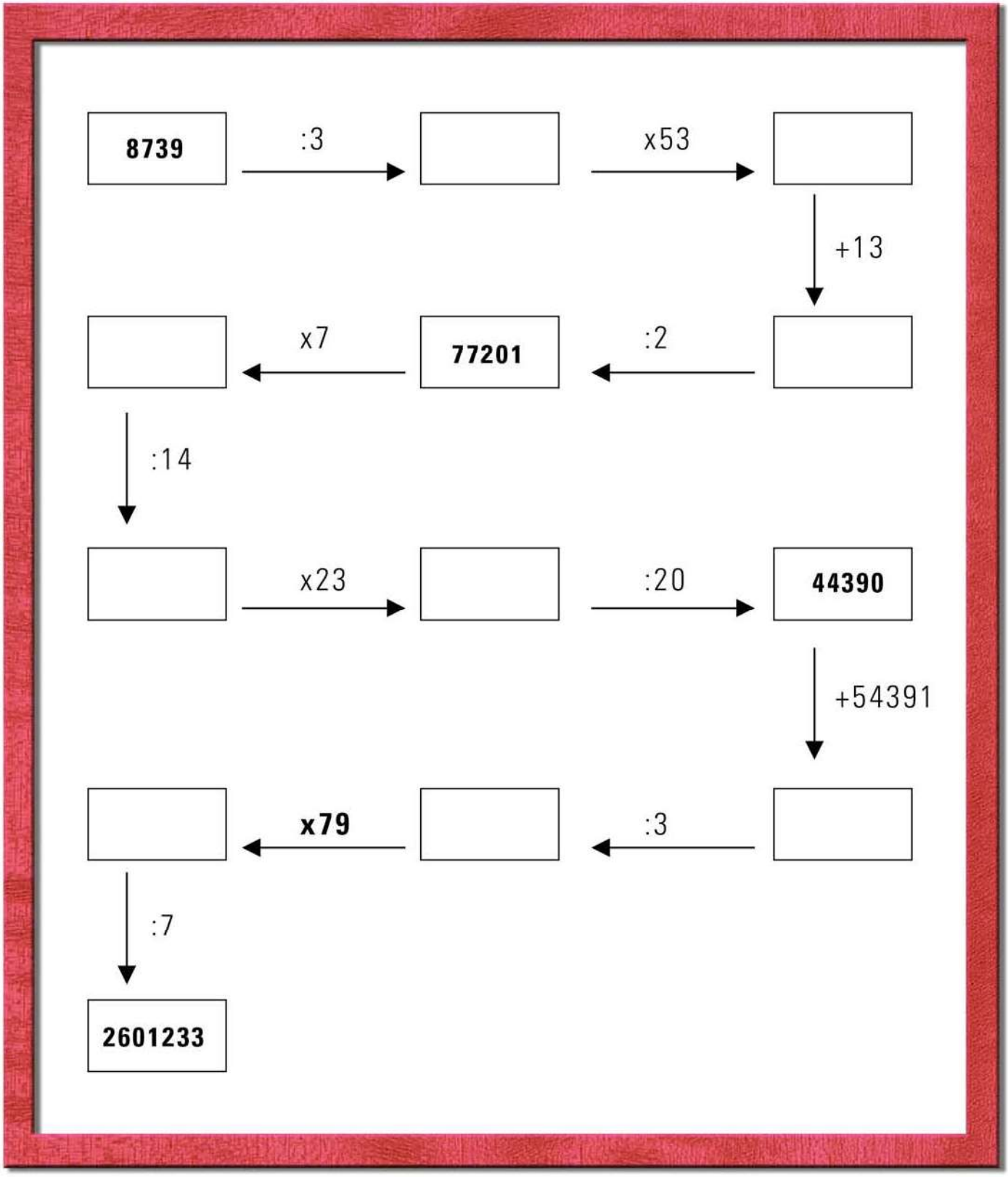

© Copyright Fundación Uszheimer - Excma. Diputación Provincial de Huelva

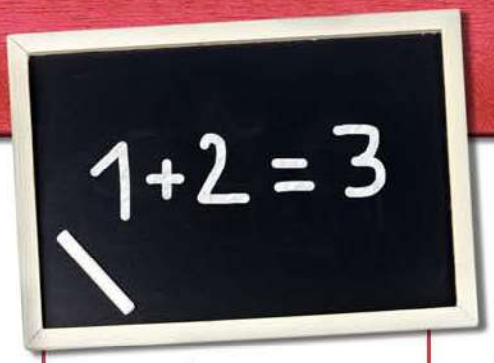

NIVEL DE ESCOLARIZACIÓN: ALTO

INSTRUCCIONES: RESUELVE LOS SIGUIENTES PROBLEMAS:

FUNCIÓN COGNITIVA

CÁLCULO

1. HEMOS COMPRADO 300 grs. DE JAMÓN POR 19,54 euros, 450 grs. DE PAN DE PAYÉS POR 1,35 euros, Y 1500 grs. DE CEREZAS POR 6 euros. ADEMÁS HEMOS IDO A LA BODEGA Y HEMOS COMPRADO 2 BOTELLAS DE VINO POR 12,35 euros. ¿CUÁNTOS KILOS DE COMIDA TENEMOS? Y ¿CUÁNTO NOS HA COSTADO TODA LA COMPRA?

2. EN UN ALMACÉN DE JUGUETES CABEN 800 CAJAS. EN CADA CAJA HAY 13 MUÑECAS Y 7 COCHES. EN LA CAMPAÑA DE NAVIDAD HAN VENDIDO 691 CAJAS. ¿CUÁNTAS MUÑECAS SE HAN QUEDADO EN EL ALMACÉN? ¿CUÁNTOS COCHES HAN VENDIDO?

3. EN BARCELONA UN BILLETE SENCILLO DE AUTOBÚS VALE 1,15 euros. LA TARJETA DE 10 VIAJES CUESTA 6,30 euros. ¿ES RENTABLE COMPRAR LA TARJETA? ¿CUÁNTO NOS AHORRAMOS SI COMPRÁSEMOS 10 VIAJES SENCILLOS?

4. PARA IR AL PUEBLO DE UN AMIGO QUE ESTÁ A 238 km, PODEMOS IR EN TREN O AUTOBÚS. EL TREN VA A 100 km/h Y EL AUTOBÚS A 80 km/h. ¿CON CUÁL LLEGAREMOS ANTES SI TENEMOS EN CUENTA QUE EL TREN PARA 6 VECES Y CADA PARADA DURA 10 MINUTOS?

© Copyright Fundación Uszheimer - Excma. Diputación Provincial de Huelva