2 Aproximaciones

Nombre _____ Fecha _____

RECUERDA

- Para aproximar un número a la centena más cercana, busca entre qué centenas está y compara su cifra de las decenas con 5.
- Para aproximar un número al millar más cercano, busca entre qué millares está y compara su cifra de las centenas con 5.

1 **Ayúdate de las rectas y aproxima cada número a la centena más cercana.**

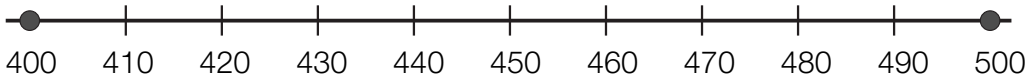

- 425 ►
- 489 ►
- 440 ►

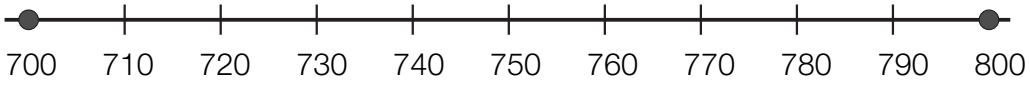

- 719 ►
- 745 ►
- 780 ►

2 **Aproxima cada número al millar más cercano.**

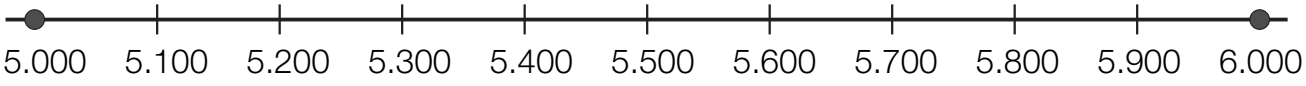

- 5.250 ►
- 5.750 ►
- 5.690 ►
- 5.310 ►

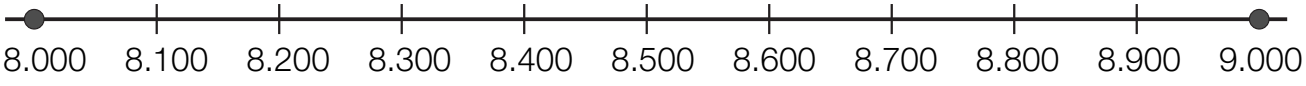

- 8.614 ►
- 8.432 ►
- 8.690 ►
- 8.325 ►

3 **Observa los precios y contesta.**



- ¿Cuánto cuesta el televisor aproximadamente?
- ¿Cuál es el precio aproximado del coche?

Material fotocopiable © 2014 Santillana Educación, S. L.